Ġ 4.2 IT-TEMP



Ġ4.2.3

Nifhmu eżempji ħfief ta' riżultati ta' kejl ta' temp.

A. Wieġeb billi taqta' sing taħt it-tajbin.

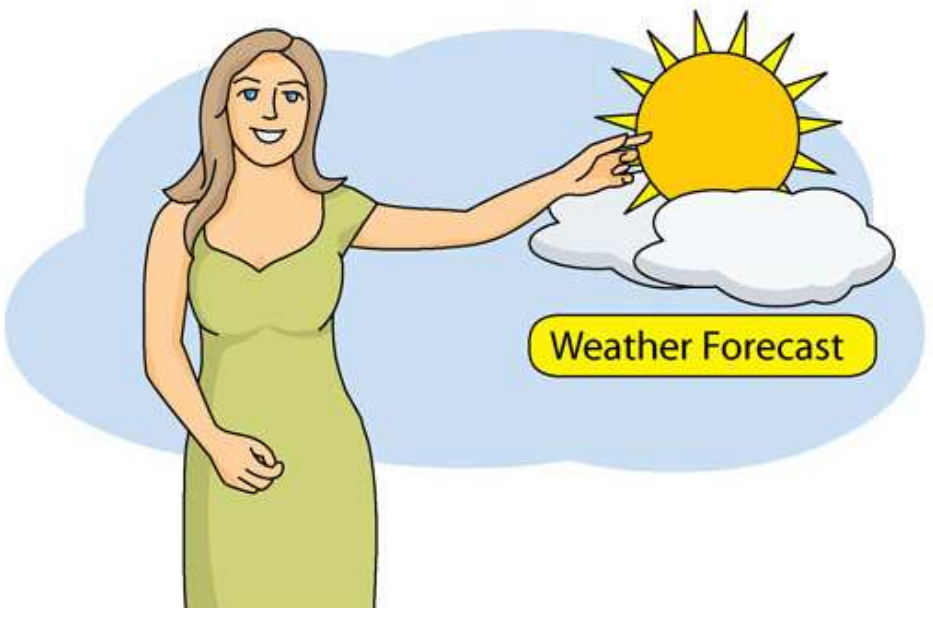

1. Illum it-temperatura fid-dell hija **35° C**.
   a) L-istaġun huwa (is-sajf, ix-xitwa)
   b) Il-UV index se jkun (11+, 3)
   ċ) Se nilbes (kowt, flokk ħafif)
   d) It-temp se jkun (sabiħ u xemxi, bix-xita u r-ragħad).
   e) Se (mmorru ngħumu, noqogħdu ġewwa ħabba x-xita).

2. Illum it-temperatura hija **10° C**.
   a) Ninsabu fl-istaġun (tas-sajf, tax-xitwa).
   b) It-temp illum se jkun (sabiħ u sħun, imsaħħab u bix-xita)
   ċ) Il-UV index se jkun madwar (11+, 3)
   d) Nilbes (flokk ħafif, ġakketta ħoxna).
   e) Nixegħlu (l-ħiter, l-fannijiet).

B. Agħżel it-tajba.

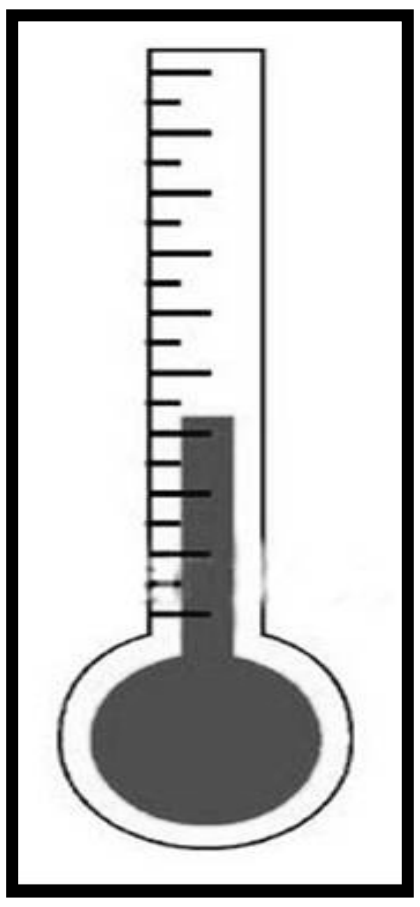

1. Temperatura ta' 35° Celsius tfisser (maltemp, bard, sħana, xita).
2. Temperatura ta' 10° Celsius tfisser (baħar sħun, bard, sħana, sħab).
3. Meta t-temperatura tinżel ħafna, l-ilma jista' jsir (muntanja, silġ, misħun, xmara).

4. Permezz tat-termometru nkejlu (l-qawwa tar-riħ, it-temperatura, id-direzzjoni tar-riħ, id-direzzjoni tax-xita).
5. Fit-termometru jkun hemm likwidu li jissejjaħ (gass, petrol, merkurju, żebgħa).

Ċ. Ir-Rapport tat-Temp:

It-temp ivarja skont l-istaġuni. Hawnhekk issib żewġ rapporti tat-temp.

Aqra d-dati sew. Wara imla l-vojt.

Agħżel minn dan il-kliem li ġej. Waħda minnhom lesta bħala eżempju.

9	10 gradi Celsius	imsaħħab b'xi ħalbiet tax-xita
2	34 grad Celsius	ħafif għal moderat mit-Tramuntana
7.9 millimetri	sabiħ u xemxi	qawwi mill-Majjistral

Rapport Numru 1

Data	**It-Tnejn 10 ta' Lulju**
Temp	
Riħ	
Xita	xejn
Temperatura	
UV Index	

Rapport Numru 2

Data	**il-Ġimgħa 2 ta' Jannar**
Temp	
Riħ	
Xita	
Temperatura	
UV Index	

D. Dawn li ġejjin kienu t-temperaturi mkejla f'nofsinhar ta' kull ġurnata tal-ewwel ġimgħa ta' Frar.

Uża t-tabella biex tikteb VERU jew FALZ.

TNEJN	TLIETA	ERBGĦA	ĦAMIS	ĠIMGĦA	SIBT	ĦADD
15° C	20° C	20° C	10° C	17° C	21° C	19° C

1. Is-Sibt għamlet l-iktar sħana mill-ġimgħa kollha __________
2. Il-Ħamis kien iktar ksieħ mill-Ġimgħa __________
3. Is-Sibt kien iktar ksieħ mill-Ħamis __________
4. Il-Ħadd kien jum iktar sħun mis-Sibt __________
5. It-Tnejn kien iktar bard mit-Tlieta __________
6. Il-Ħamis kien iktar bard mill-Erbgħa __________
7. L-Erbgħa ma kienx bard daqs il-Ħamis __________
8. It-Tlieta u l-Erbgħa, it-temperatura kienet l-istess __________

E. Ir-Rapport tat-Temp

L-Ewwel Rapport

It-temp: Imsaħħab b'ħalbiet iżolati tax-xita li jistgħu jkunu bir-ragħad minn ħin għal ieħor.

Ir-riħ: Qawwi mill-Grigal u jilħaq forza ta' riefnu kultant.

Baħar/Imbatt: Qawwi mill-Majjistral.

L-ogħla temperatura = 10° Celsius.

L-inqas temperatura = 5° Celsius.

It-temperatura tal-baħar = 15° Celsius.

Aħjar nilbes ġersi oħxon, qalziet twil u ġakketta llum, biex immur l-iskola, u ngħid lil ommi tlestili xi platt sħun u tixgħel il-ħiter. Ftit tal-ġranet ilu kellna l-Milied. Ħadt pjaċir narma l-presepju u ommi sajritilna dundjan mimli u l-kejk tal-Milied. Kienu tajbin!

Liema staġun taħseb li hu?

____.

It-Tieni Rapport

It-temp: Xemxi li jsir ftit imsaħħab minn ħin għal ieħor.

Ir-riħ: ħafif għal moderat minn Nofs in-Nhar għax-Xlokk.

Baħar/Imbatt: Moderat b'imbatt baxx minn Nofs in-Nhar.

L-ogħla temperatura = 19° Celsius.

L-inqas temperatura = 10° Celsius.

Temperatura tal-baħar = 16° Celsius.

Hu ftit frisk, imma temp sabiħ għandna. Illum nilbes qmis / blaws bil-komma twila. Qegħdin fir-Randan u dalwaqt ikollna l-vaganzi tal-Għid. Kemm niekol figolli u bajd ta' l-Għid, u kemm ħa nieħu gost immur xi mixja ma' sħabi fil-kampanja, li tkun mimlija bi lwien sbieħ ta' fjuri selvaġġi.

Il-ġurnata twalet mhux ħażin ukoll.

Liema staġun taħseb li hu?

____

It-Tielet Rapport

It-temp: Xemxi.

Ir-riħ: ħafif u Varjabbli.

Baħar / Imbatt: ħafif bi ftit li xejn imbatt.

L-ogħla temperatura = 34° Celsius.

L-inqas temperatura = 24° Celsius.

It-temperatura tal-baħar = 26° Celsius.

Uff xi sħana, aħjar qiegħed/a ngħum; bħalissa iżda għandi l-eżamijiet jumejn oħra, u rrid nistudja. Issa nilbes xi ħaġa ħafifa, nixgħel il-fann u niekol ġelat biex niffriska ftit. U iva, dalwaqt jibdew il-vaganzi t-twal u nibda mmur il-baħar kuljum. Ikun hawn ħafna festi wkoll u xi ngħidu għall-frott bħal ħawħ, għajnbaqar, dulliegħ u bettieħ.

Kemm inħobbu l-istaġun ____!!!

Ir-Raba' Rapport

It-temp: Waqtiet xemxin li jissaħħab aktar tard.

Ir-riħ: Moderat mil-Lbiċ u jdur Majjistral wara nofs innhar.

Baħar/Imbatt: Moderat għal qawwi b'imbatt baxx għal moderat mil-Lbiċ li jsir imħawwad.

L-ogħla temperatura = 22° Celsius.

L-inqas temperatura = 14° Celsius.

It-temperatura tal-baħar = 20° Celsius.

Kemm qed jidlam kmieni!! U l-arja bidet tiffriska wkoll. Ser ikolli nilbes xi ġersi ħafif. Ma baqagħlix ħin immur il-baħar għax reġgħet bdiet l-iskola. Iżda nieħu pjaċir nerġa' niltaqa' ma' sħabi. Is-siġar ġa bdew iwaqqgħu l-weraq u l-kampanja niexfa ma tantx tħajjarni mmur xi passiġġata.

Iġri tgħaddi l- ____!!!

F. Imla l-vojt skont l-istampi.

It-Tnejn	It-Tlieta	l-Erbgħa	Il-Ħamis	Il-Ġimgħa
				
12^0 C	25^0 C	27^0 C	20^0 C	18^0 C

1. Ir-________________ tat-temp joħroġ mill-uffiċċju meteoroloġiku.
2. Nhar l-Erbgħa t-temp kien ________________ .
3. L-iktar temp sħun kien dak ta' nhar ________________ .
4. L-iktar temp kiesaħ għamel nhar ________________ .
5. L-Erbgħa għamlet _________________ sħana mit-Tlieta.
6. L-Erbgħa kienet ________________ sħana mill-________________.
7. It-Tnejn, il-________________ u l-________________ kienu bix-xita.
8. Din il-ġimgħa, it-________________ u l-________________ biss kienu ġranet sbieħ.

Ġ. Aqra, imbagħad wieġeb.

Ir-rapport tat-temp jagħtina informazzjoni dwar it-temp. Jgħidilna kif x'aktarx se jkun it-temp fil-jum li jmiss.

Immarka bis-sinjal (✓) dawk il-**ħames affarijiet** li nistgħu nisimgħu fir-rapport tat-temp.

1.	kemm tkun għamlet xita matul il-jum	
2.	kemm se jkunu l-indiċi UV	
3.	l-aħbarijiet mill-Italja	
4.	il-films li jkunu se jintwerew fiċ-ċinema	
5.	id-direzzjoni tar-riħ	
6.	it-toroq li se jkunu magħluqin minħabba tiswijiet	
7.	it-temperatura matul il-jum u matul il-lejl	
8.	l-inċidenti tat-traffiku li kellna fl-aħħar 24 siegħa	
9.	it-temperaturi f'xi bliet kapitali	
10.	kotba ġodda	

G. Wara li taqra d-dati sew, kompli imla dawn iż-żewġ rapporti tat-temp. Agħżel mill-kliem fil-kaxxi.

16-il grad Celsius	temp xemxi u sabiħ	5 mm	9
34 grad Celsius	imsaħħab u bix-xita	xejn	3

DATA:	is-Sibt 10 ta' Frar
TEMP:	
RIĦ:	qawwi mill-Majjistral
XITA:	
INDIĊI UV	
TEMPERATURA	



DATA:	il-Ħadd 8 t'Awwissu
TEMP:	
RIĦ:	ħafif mix-Xlokk
XITA:	
INDIĊI UV	
TEMPERATURA	

GĦ. Aqta' sing taħt ir-risposti t-tajbin.

1. Fir-rapport tat-temp ikollna informazzjoni dwar (l-irħula Maltin, il-ħin li fih titla' x-xemx, il-muntanji, id-deżert).

2. Mod kif it-temp jaffettwalna ħajjitna huwa (fl-ilbies li nilbsu, liema gazzetta naqraw, kif naħsbuha, nużawx emails jew il-posta).

3. Temperatura ta' 10 gradi Celsius hija temperatura (tas-sajf, tal-ħarifa, tax-xitwa, għolja).

4. Malta għandha klima Mediterranja. Dan ifisser li (ix-xita tagħmel l-iktar fix-xitwa, fis-sajf tinżel il-borra, fir-rebbiegħa jkollna s-silġ, fix-xitwa l-baħar isir silġ).

Ħ. Niktbu ftit

Ikteb ftit sentenzi fuq liema żmien/ staġun joġgħbok l-aktar.

Għid għaliex joġgħbok dan iż-żmien, kif ikun it-temp u kif l-aħjar li nilbsu.